CONCURSO PÚBLICO
FUNDAMENTAL / MANHÃ

DADOS DE IDENTIFICAÇÃO DO CANDIDATO

Não deixe de preencher as informações a seguir:

Nome

Nº de Identidade ***Órgão Expedidor*** ***UF*** ***Nº de Inscrição***

FUNDAMENTAL MANHÃ
(AUXILIAR DE SERVIÇOS GERAIS / AUXILIAR DE SERVIÇOS EDUCACIONAIS)

PREZADO CANDIDATO!

- *Você está recebendo o seu Caderno de Prova Escrita, contendo 40 (quarenta) questões objetivas de múltipla escolha com 05 (cinco) alternativas cada.*
- *Se encontrar alguma informação em desacordo, incompleto ou com algum defeito gráfico que lhe cause dúvidas, informe, imediatamente, ao Fiscal para ele tomar as providências necessárias. Caso não seja atendido em sua reivindicação, solicite que seja chamado o Chefe de Prédio.*
- *Para registrar as alternativas escolhidas nas questões objetivas de múltipla escolha, você receberá um Cartão-Resposta de Leitura Ótica. Verifique, também, se o Número de Inscrição impresso está correto***.**
- *As marcações das suas respostas no Cartão-Resposta devem ser realizadas mediante o preenchimento total das bolhas correspondentes a cada número da questão e da letra da alternativa. Utilize, para isso, caneta esferográfica na cor azul ou preta.*
- *Se for necessária a utilização do sanitário, você deverá solicitar permissão ao fiscal de sala que designará um fiscal volante para acompanhá-lo no deslocamento, devendo permanecer em silêncio, durante todo o percurso, podendo, antes de entrar no sanitário e depois da utilização deste, ser submetido à revista (com ou sem detector de metais). Caso, nesse momento, sejam detectados qualquer irregularidade ou porte de tipo de equipamento eletrônico, serão tomadas providências de acordo com o estabelecido no Edital do Concurso.*
- *Ao terminar sua Prova e preenchido o Cartão-Resposta, desde que no horário estabelecido para deixar o recinto de Prova, entregue-o ao Fiscal e deixe a sala em silêncio.*

BOA SORTE!

PORTUGUÊS

Texto 1 para as questões de 01 a 03.

A CARROÇA

Certa manhã, meu pai, muito sábio, convidou-me para dar um passeio no bosque e eu aceitei com prazer.
Após algum tempo, ele se deteve numa clareira e, depois de um pequeno silêncio, me perguntou:
– Além do canto dos pássaros, você está ouvindo mais alguma coisa?
Apurei os ouvidos alguns segundos e respondi:
– Estou ouvindo um barulho de carroça.
– Isso mesmo – disse meu pai – e é uma carroça vazia!
Perguntei a ele:
– Como pode saber que a carroça está vazia, se ainda não a vimos?
– Ora – respondeu meu pai – é muito fácil saber que uma carroça está vazia por causa do barulho. Quanto mais vazia a carroça, maior é o barulho que faz.
Tornei-me adulto e até hoje, quando vejo uma pessoa falando demais, gritando (no sentido de intimidar), tratando o próximo com grosseria inoportuna, prepotente, interrompendo a conversa de todo mundo e querendo demonstrar ser o dono da razão e da verdade absoluta, tenho a impressão de ouvir a voz do meu pai dizendo:
– Quanto mais vazia a carroça, mais barulho ela faz!

https://www.mensagenscomamor.com/textos-reflexivos, Acesso em 29/04/2022

01. Após ler o texto, chega-se à conclusão de que

A) toda carroça faz barulho.
B) os pais sempre dialogam com os filhos.
C) quanto mais vazia a carroça, mais barulho ela faz.
D) o diálogo entre o pai e o filho era bem agressivo.
E) o pai do texto era um homem ignorante.

---

02. Observe o trecho abaixo:

"...e, depois de um pequeno silêncio, me perguntou**: ..."**

Assinale a alternativa cujo texto contém a mesma mensagem do trecho acima.

A) E, antes de um silêncio prolongado, me indagou.
B) E, após um breve silêncio, me questionou.
C) E, antes de um silêncio rápido, me abordou.
D) E, depois de um longo silêncio, me acusou.
E) E, antes de um breve silêncio, me agrediu.

---

03. Numere a segunda coluna de acordo com a primeira, observando as letras sublinhadas.

1. Vogal
2. Consoante

( ) "Você está ouvindo <u>m</u>ais alguma coisa?"
( ) "...<u>e</u> é uma carroça vazia!"
( ) "quando <u>v</u>ejo uma pessoa falando..."
( ) "<u>Q</u>uanto mais vazia a carroça..."
( ) "...tratando <u>o</u> próximo..."

Assinale a alternativa que indica a sequência CORRETA.

A) 2/1/2/2/1
B) 2/2/2/2/1
C) 2/1/2/1/1
D) 1/2/2/2/1
E) 1/2/1/2/1

Texto 2 para as questões de 04 a 07.

A CORAGEM DE ENFRENTAR SEUS MEDOS

Diz uma antiga fábula que um camundongo vivia angustiado com medo do gato.
Um mágico teve pena dele e o transformou em gato. Mas aí ele ficou com medo de cão, por isso o mágico o transformou em pantera.
Então ele começou a temer os caçadores.
A essa altura, o mágico desistiu. Transformou-o em camundongo novamente e disse:
– Nada que eu faça por você vai ajudá-lo, porque você tem apenas a coragem de um camundongo.
É preciso coragem para romper com o projeto que nos é imposto. Mas saiba que coragem não é a ausência do medo, é sim a capacidade de avançar, apesar do medo; caminhar para frente; e enfrentar as adversidades, vencendo os medos…
É isto que devemos fazer. Não podemos nos derrotar, nos entregar por causa dos medos.

https://www.mensagenscomamor.com/textos-reflexivos. Acesso em 30/04/2022

04. Após a leitura do texto 2, conclui-se que

A) todo medo faz bem à pessoa.
B) as pessoas se sentem derrotadas, aí desistem rápido de lutar.
C) há medos que não devemos enfrentar.
D) mesmo com medo, é preciso ter a coragem para avançar.
E) a grande maioria das pessoas é medrosa.

---

05. Sobre o camundongo do texto 2, é CORRETO afirmar que ele

A) era muito atrevido e ousado.
B) vivia às brigas com o gato.
C) não queria mudar o seu jeito de ser.
D) não tinha medo dos outros animais.
E) gostava muito de caçadores.

---

06. Observe o texto abaixo:

"Não podemos nos derrotar, nos entregar por causa dos medos."

Qual das alternativas abaixo contém a mesma mensagem do texto acima?

A) Devemos nos deixar conduzir pelo medo e recuar diante de alguns fatos.
B) A derrota não pode nos vencer nem devemos nos entregar por causa dos medos.
C) Em certos momentos, precisamos admitir as derrotas.
D) O medo nos consome e devemos desistir de algumas ações.
E) Ser corajoso não significa não viver derrotas.

---

07. Observe os itens abaixo e os termos neles sublinhados:

I. "Então ele começou a <u>temer</u> os caçadores."
II. "Mas saiba que coragem não é a <u>ausência</u> do medo."
III. "...um camundongo vivia <u>angustiado</u> com medo do gato."
IV. "Nada que eu faça por você vai <u>ajudá-lo</u>."
V. "<u>Transformou</u>-o em camundongo novamente e disse:..."

Assinale a alternativa CORRETA.

A) No item I, o termo sublinhado pode ser substituído por "agredir", sem mudar o sentido do texto.
B) No item II, o termo sublinhado pode ser substituído por "excesso", sem mudar o sentido do texto.
C) No item III, o termo sublinhado pode ser substituído por "tranquilo", e isso não altera o sentido do texto.
D) No item IV, o termo sublinhado pode ser substituído por "ferir", sem mudar o sentido do texto.
E) No item V, o termo sublinhado pode ser substituído por "mudou", sem haver mudança no sentido do texto.

---

08. Leia o texto abaixo:

E lá ia Clarissa andando pela rua, com a bolça pendurada no pescoço e em uma das mãos carregava um picolé de baunilha.

- Está gostozo, Clarissa? Me dá um pouquinho.
- Nem pensar. Você só quer molesa. Vá comprar ali na esquina.
- Você tem um coração tão duro. Nem se compadece dos mais sofridos.
- E você é sofrido? Você é muito do experto.

https://www.mensagenscomamor.com/textos-reflexivos. Acesso em 30/04/2022

No texto acima, existem várias palavras escritas de forma errada. Em qual alternativa, TODAS elas estão indicadas?

A) Bolça, gostozo, molesa, experto.
B) Bolça, pouquinho, molesa, compadece.
C) Gostozo, molesa, pouquinho, experto.
D) Carregava, baunilha, gostozo, molesa.
E) Molesa, gostozo, compadece, sofridos

Texto 3 para a questão 09.

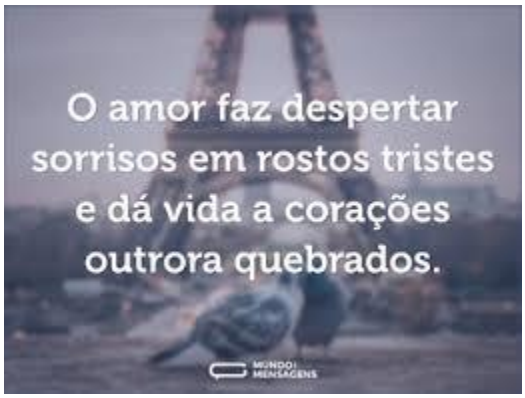

https://www.google.com/search?q=frases%20de%20reflex%C3%A3o&tAcesso em 28/04/2022.

09. Sobre o texto acima, conclui-se que

A) o amor só produz tristezas.
B) os rostos tristes abrem sorrisos sempre.
C) o amor faz renascer corações antes despedaçados.
D) o amor não desperta sorrisos em alguém.
E) corações quebrados rejeitam o amor.

Texto 4 para a questão 10.

https://www.mensagenscomamor.com/frases-de-amor. Acesso em 30/04/2022

10. O texto 4 nos faz entender que

A) na vida, correr faz bem à saúde.
B) tudo na vida acontece no seu tempo.
C) não importa o lugar onde os fatos acontecem.
D) para correr, é preciso, antes, se exercitar.
E) nem tudo exige lugar e hora.

Texto 5 para a questão 11.

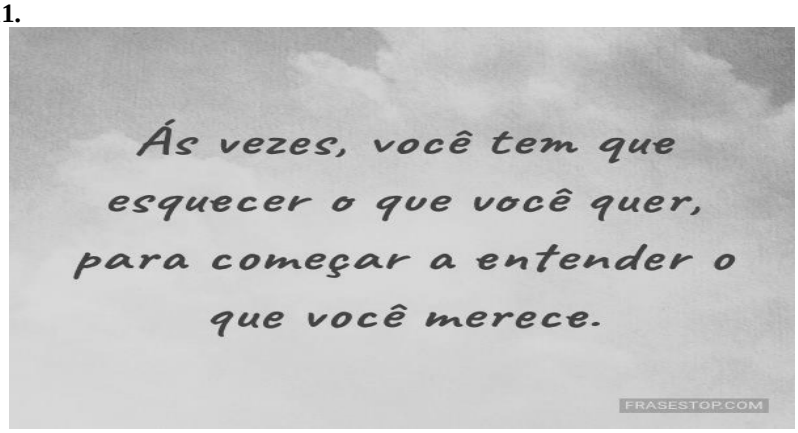

https://www.google.com/search?q=frases+de+reflex%C3%A3o&rlz=1C1GCEA Acesso em 29/04/2022

11. O texto 5 traz como mensagem

A) o fato de que todos nós merecemos ser felizes.
B) a ideia de que sempre precisamos primeiro estar atentos ao que queremos.
C) de que algumas vezes, necessitamos pensar antes sobre o que merecemos para, depois, desejarmos algo.
D) de que o pensamento, em alguns momentos, prejudica nossos atos.
E) de que o merecimento é de poucos.

Texto 6 para a questão 12.

https://www.google.com/search?rlz=1C1GCEA_enBR977BR977&sxsrf=ALiCzsaN9j87_pJJ0tkvI4DEDROuU
Acesso em 10 de maio de 2022.

12. Qual alternativa indica TODOS os erros que existem no texto 6?

A) Desculpe, somus, ezatas.
B) Espeçialistas, português, ezatas.
C) Somus, espeçialistas, ezatas.
D) Desculpe, português, somus.
E) Somus, ezatas.

Texto 7 para as questões 13 e 14.

https://www.google.com/search?q=frases+de+reflex%C3%A3o&rlz=1C1GCEA Acesso em 29/04/2022

13. De acordo com o texto 7,

A) a paz é difícil de ser atingida.
B) a paz é algo que não tem muita importância.
C) as pessoas insistem em pedir a paz a todo tempo.
D) pedir a paz é, às vezes, algo esquecido pelas pessoas.
E) a paz já existe sempre, não há necessidade de pedir por ela.

---

14. No texto 7, a locução "às vezes**" indica que a ação acontece**

A) sempre.
B) raramente.
C) frequentemente.
D) nunca.
E) algumas vezes.

Texto 8 para a questão 15.

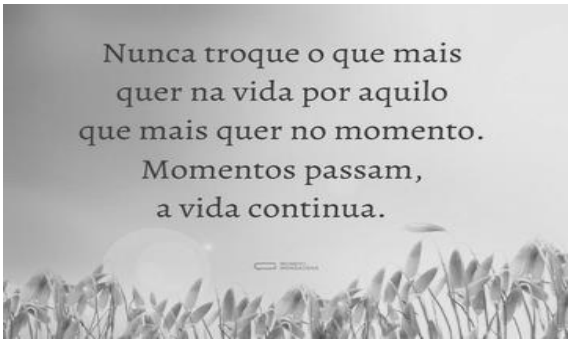

https://www.mundodasmensagens.com/frases-reflexao/ Acesso em 30/04/2022

15. Após a leitura do texto 8, conclui-se que

A) vale a pena viver o presente sem pensar no futuro.
B) não se deve desistir daquilo que mais se deseja alcançar.
C) viver o momento presente é só o que importa.
D) a vida ensina a sonhar pouco e viver apenas o presente.
E) viver é algo que não exige projetos nem sonhos.

Texto 9 para as questões de 16 a 19.

A Lamparina

A lamparina, bem cheia de óleo, esteve acesa para ter uma luz clara e constante. Ela começou a se encher de orgulho e a se vangloriar, dizendo:

— Eu brilho mais do que o próprio sol.

Logo depois, veio um sopro de vento e a apagou. Alguém pegou um fósforo e acendeu novamente, dizendo:

— Mantenha-se acesa e não se preocupe com o sol. As estrelas nunca precisarão ser reacendidas, como acabei de fazer com você.

https://www.culturagenial.com/fabulas-infantis/#:~:text Acesso em 30/04/2022

16. Após a leitura do texto 9, conclui-se que

A) a vaidade começou a tomar conta da lamparina.
B) ser simples na vida só prejudica.
C) é preciso sempre disputar com os outros para crescer.
D) todos são iguais, dependem muito dos outros.
E) não precisar de ninguém é saudável e traz felicidade.

---

17. No texto "...esteve acesa para ter uma luz clara e constante**" , o termo sublinhado significa**

A) fraca. B) rara. C) permanente. D) escassa. E) firme.

---

18. Em "Mantenha-se acesa e não se preocupe com o sol.**", o termo sublinhado pode ser substituído por**

A) se aborreça.
B) se importe.
C) se angustie.
D) se amedronte.
E) se irrite.

---

19. Observe o termo sublinhado no trecho abaixo:

"As estrelas nunca precisarão ser reacendidas, como acabei de fazer com você.**"**

Esse termo pode ser substituído igualmente por

A) desejarão.
B) tenderão.
C) quererão.
D) poderão.
E) necessitarão.

Texto 10 para a questão 20.

- Ei, menino, me trás aí uma garrafa de água mineral.
- Pôs não, senhor.
- Pensei que estava más gelada...
- Disculpa, vou buscar outra, senhor.
- Não, preciza, não, tomo assim meismo.

Autor Desconhecido

20. O texto 10 apresenta algumas palavras escritas INCORRETAMENTE. Em qual alternativa TODAS elas estão indicadas?

A) Trás, más, preciza.
B) Pôs, disculpa, preciza, meismo.
C) Trás, pôs, más, disculpa, preciza, meismo.
D) Trás, disculpa, meismo.
E) Pôs, más, preciza, meismo.

MATEMÁTICA

21. Em uma caixa, existem 300 parafusos de três tamanhos diferentes, sendo 120 de tamanho pequeno e 96 de tamanho grande.
É CORETO afirmar que a quantidade de tamanho médio existente na caixa totaliza

A) 280
B) 204
C) 194
D) 180
E) 84

---

22. Um determinado armazém de construção vende 1.500 sacos de cimento por mês. É CORRETO afirmar que o mesmo armazém vende, por ano, uma quantidade de sacos de cimento igual a

A) 9.000
B) 15.000
C) 18.000
D) 20.000
E) 36.000

---

23. Em uma gincana com 525 participantes, foi distribuído um computador para cada grupo de 5 participantes. Assinale a alternativa que representa a quantidade de computadores distribuídos.

A) 25
B) 50
C) 100
D) 105
E) 125

---

24. O valor numérico da expressão (50 : 5 – 10 x 2 + 20 : 2) é

A) 0
B) 5
C) 6
D) 10
E) 12

---

25. Um servidor aplicou um capital de R$500,00 a juros simples, à taxa de 0,5% a.m., durante 12 meses. Ao final dos 12 meses, o servidor obteve um montante, em reais, no valor de

A) 30,00
B) 530,00
C) 600,00
D) 800,00
E) 1.000,00

---

26. Em uma aplicação financeira de R$1.500,00, no período de um ano e meio, a uma taxa de juros simples de 1,2% ao mês, os juros correspondentes à aplicação, em reais, no final do período, serão

A) 120,00
B) 180,00
C) 240,00
D) 324,00
E) 408,00

---

27. Para resultar em um montante de R$12.000,00, aplicados a juros simples, à taxa de 2% a.m., em um período de 10 meses, é necessário aplicar um capital, em reais, de

A) 6.000,00
B) 8.000,00
C) 10.000,00
D) 11.000,00
E) 11.200,00

---

28. Para quadruplicar um capital aplicado a juros simples, à taxa de 6% a.a., é necessário um período de

A) 60 meses.
B) 60 anos.
C) 50 meses.
D) 50 anos.
E) 30 meses.

---

29. A unidade de padrão de medida de capacidade no sistema métrico decimal é o

A) litro.
B) metro cúbico.
C) quilolitro.
D) hectolitro.
E) decalitro.

---

30. Um centilitro tem

A) 10 litros.
B) 1 litro.
C) 0,1 litro.
D) 0,01 litro.
E) 0,001 litro.

---

31. O símbolo da unidade padrão de medida de massa, adotada pelo sistema métrico decimal, é

A) kg
B) hg
C) dag
D) dg
E) cg

---

32. Se 1,0 kg de carne custa R$40,00, então 750 g custam

A) R$1,87
B) R$18,75
C) R$30,00
D) R$35,00
E) R$37,50

---

33. Entre os estudantes de uma escola, existem 420 meninas e 280 meninos. Assinale a alternativa que representa a razão entre o número de meninos e o número de estudantes da escola.

A) 2/3
B) 3/2
C) 1
D) 5/2
E) 2/5

---

34. Uma bola de FUTSAL tem 400 g e uma de Futebol de Campo tem 450 g. Assinale a alternativa que indica a razão entre as massas dessas bolas, nesta ordem.

A) 4/45
B) 40/45
C) 50/45
D) 55/45
E) 60/45

---

35. Calcule o valor de x na proporção $\frac{7}{x} = \frac{21}{6}$

A) 2
B) 5
C) 10
D) 20
E) 24

---

36. Uma haste metálica mede 132,0 mm, dividida em dois pedaços na razão de 8 para 3. O pedaço maior mede

A) 36,0 mm
B) 46,0 mm
C) 96,0 mm
D) 106,0 mm
E) 126,0 mm

---

37. Assinale a alternativa cujos números, nessa ordem, formam uma proporção.

A) 1, 2, 3 e 4
B) 3, 2, 9 e 6
C) 4, 3, 3 e 8
D) 5, 2, 7 e 3
E) 7, 4, 9, e 4

---

38. Álcool e gasolina são misturados na razão de 2 para 5. Sabendo-se que há 24 litros de álcool na mistura, o volume total em litros é de

A) 2
B) 5
C) 24
D) 60
E) 84

---

39. Meio quilograma equivale a

A) 5.000 g
B) 500 g
C) 50 g
D) 5 g
E) 0,5 g

---

40. Sabe-se que a densidade demográfica é a razão entre o número de habitantes e a área ocupada pela região. Uma determinada cidade tem uma área igual a 800,00 km^2 e uma população igual a 58.000 habitantes.
A densidade demográfica dessa cidade é

A) 7,25 hab/km^2
B) 13,8 hab/km^2
C) 13,8 hab/m^2
D) 72,5 hab/m^2
E) 72,5 hab/km^2

AUXILIAR DE SERVIÇOS GERAIS